CENTRALNA KOMISJA EGZAMINACYJNA

Arkusz zawiera informacje prawnie chronione do momentu rozpoczęcia egzaminu.

WYPEŁNIA ZDAJĄCY

KOD | PESEL

Miejsce na naklejkę.
Sprawdź, czy kod na naklejce to **M-100**.
Jeżeli tak – przyklej naklejkę.
Jeżeli nie – zgłoś to nauczycielowi.

Egzamin maturalny *Formuła 2023*

MATEMATYKA

Poziom podstawowy

Symbol arkusza
MMAP-P0-**100**-2605

DATA: **5 maja 2026 r.**

GODZINA ROZPOCZĘCIA: **9:00**

CZAS TRWANIA: **180 minut**

LICZBA PUNKTÓW DO UZYSKANIA: **50**

WYPEŁNIA ZESPÓŁ NADZORUJĄCY

☐ Uprawnienie zdającego do dostosowania w związku z dyskalkulią.

Przed rozpoczęciem pracy z arkuszem egzaminacyjnym

1. Sprawdź, czy nauczyciel przekazał Ci **właściwy arkusz egzaminacyjny**, tj. arkusz we **właściwej formule**, z **właściwego przedmiotu** na **właściwym poziomie**.
2. Jeżeli przekazano Ci **niewłaściwy** arkusz – natychmiast zgłoś to nauczycielowi. Nie rozrywaj banderol.
3. Jeżeli przekazano Ci **właściwy** arkusz – rozerwij banderole po otrzymaniu takiego polecenia od nauczyciela. Zapoznaj się z instrukcją na stronie 2.

Więcej materiałów na lern.one

Układ graficzny
© CKE 2022

Instrukcja dla zdającego

1. Sprawdź, czy arkusz egzaminacyjny zawiera 35 stron (zadania 1–33). Ewentualny brak zgłoś przewodniczącemu zespołu nadzorującego egzamin.
2. Na pierwszej stronie arkusza oraz na karcie odpowiedzi wpisz swój numer PESEL i przyklej naklejkę z kodem.
3. Symbol zamieszczony w nagłówku zadania oznacza, że rozwiązanie zadania zamkniętego musisz przenieść na kartę odpowiedzi. Ocenie podlegają wyłącznie odpowiedzi zaznaczone na karcie odpowiedzi.
4. Odpowiedzi do zadań zamkniętych zaznacz na karcie odpowiedzi w części przeznaczonej dla zdającego. Zamaluj ■ pola do tego przeznaczone. Błędne zaznaczenie otocz kółkiem ■ i zaznacz właściwe.
5. Pamiętaj, że pominięcie argumentacji lub istotnych obliczeń w rozwiązaniu zadania otwartego może spowodować, że za to rozwiązanie nie otrzymasz pełnej liczby punktów.
6. Rozwiązania zadań i odpowiedzi wpisuj w miejscu na to przeznaczonym.
7. Pisz czytelnie i używaj tylko długopisu/pióra z czarnym tuszem/atramentem.
8. Nie używaj korektora, a błędne zapisy wyraźnie przekreśl.
9. Nie wpisuj żadnych znaków w tabelkach przeznaczonych dla egzaminatora. Tabelki są umieszczone na marginesie przy odpowiednich zadaniach.
10. Pamiętaj, że zapisy w brudnopisie nie będą oceniane.
11. Możesz korzystać z *Wybranych wzorów matematycznych*, z cyrkla i linijki oraz z kalkulatora prostego. Upewnij się, czy przekazano Ci broszurę z okładką taką jak widoczna poniżej.



Więcej materiałów na lern.one

Więcej materiałów na lern.one

Zadania egzaminacyjne są wydrukowane na następnych stronach.

Zadanie 1. (0–1)

Dokończ zdanie. Wybierz właściwą odpowiedź spośród podanych.

Liczba $\sqrt{\frac{25}{8}} \cdot \sqrt{2} + 2^{-1}$ jest równa

A. 1 **B.** 2 **C.** 3 **D.** 4

Brudnopis

Zadanie 2. (0–1)

Klient wpłacił do banku $10\,000$ zł na lokatę dwuletnią. Po każdym rocznym okresie oszczędzania bank dolicza odsetki w wysokości 6% od kwoty bieżącego kapitału znajdującego się na lokacie – zgodnie z procentem składanym.

Dokończ zdanie. Wybierz właściwą odpowiedź spośród podanych.

Po dwóch latach oszczędzania łączna wartość doliczonych odsetek na tej lokacie (bez uwzględniania podatków) jest równa

A. 1200 zł **B.** 1236 zł **C.** 1836 zł **D.** 3600 zł

Brudnopis

Więcej materiałów na lern.one

Zadanie 3. (0–1)

Dokończ zdanie. Wybierz właściwą odpowiedź spośród podanych.

Liczba $\sqrt{5\sqrt{5}}$ jest równa

A. $5^{\frac{1}{4}}$ **B.** $5^{\frac{1}{2}}$ **C.** $5^{\frac{3}{4}}$ **D.** 5

Brudnopis

Zadanie 4. (0–1)

Dokończ zdanie. Wybierz właściwą odpowiedź spośród podanych.

Liczba $\log_8 4 - \log_8 32$ jest równa

A. (-2) **B.** (-1) **C.** 1 **D.** 2

Brudnopis

Więcej materiałów na lern.one

Zadanie 5. (0–1)

Oceń prawdziwość poniższych stwierdzeń. Wybierz P, jeśli stwierdzenie jest prawdziwe, albo F – jeśli jest fałszywe.

Liczba naturalna $4^{12} \cdot 5^{24}$ jest podzielna przez 20.	**P**	**F**
Liczba naturalna $4^{12} \cdot 5^{24}$ jest w zapisie dziesiętnym liczbą 25-cyfrową.	**P**	**F**

Brudnopis

Zadanie 6. (0–1)

Dokończ zdanie. Wybierz właściwą odpowiedź spośród podanych.

Wartość wyrażenia $x^2 + 10x + 25$ dla $x = \sqrt{2} - 5$ jest równa

A. 2 **B.** $\sqrt{2}$ **C.** $2 - 20\sqrt{2}$ **D.** $62 - 10\sqrt{2}$

Brudnopis

Więcej materiałów na lern.one

Zadanie 7. (0–2)

Wykaż, że dla każdej liczby całkowitej n liczba $7n^2 + 21n$ jest podzielna przez 14.

7.
0–1–2

Więcej materiałów na lern.one

Zadanie 8. (0–1)

Dane jest równanie

$$3(x+3)(x-m)(2x+4)=0$$

gdzie x jest niewiadomą, natomiast m jest pewną liczbą rzeczywistą.

Suma wszystkich rozwiązań tego równania jest równa 0.

Dokończ zdanie. Wybierz właściwą odpowiedź spośród podanych.

Liczba m jest równa

A. (-7) **B.** 2 **C.** 5 **D.** 7

Brudnopis

Zadanie 9. (0–1)

Dokończ zdanie. Wybierz właściwą odpowiedź spośród podanych.

Rozwiązaniem równania

$$\frac{x+2}{3x-1}=\frac{2}{5}$$

jest liczba

A. $\frac{1}{3}$ **B.** $\frac{8}{11}$ **C.** 3 **D.** 12

Brudnopis

Więcej materiałów na lern.one

Zadanie 10. (0–2)

10.
0–1–2

Rozwiąż nierówność

$$3x^2 + 4x \geq 6x + 8$$

Zapisz obliczenia.

Więcej materiałów na lern.one

Zadanie 11. (0–2)

Na przedstawienie w pewnym teatrze sprzedawano bilety według poniższego cennika.

CENNIK BILETÓW	
Rodzaj biletu	Cena w złotych
Normalny	35
Ulgowy	25

Na to przedstawienie sprzedano łącznie 200 biletów.
Po opłaceniu kosztów związanych z organizacją przedstawienia w wysokości 25% wpływów ze sprzedaży biletów organizatorom pozostało 4665 zł.

11.
-1–2

Oblicz liczbę biletów ulgowych sprzedanych na to przedstawienie. Zapisz obliczenia.

Więcej materiałów na lern.one

Więcej materiałów na lern.one

Zadanie 12.

Funkcja f jest określona następująco:

$$f(x) = \begin{cases} x + 2 & \text{dla } x \in [-4, 2] \\ -x + 5 & \text{dla } x \in (2, 5) \end{cases}$$

Wykres funkcji $y = f(x)$ przedstawiono w kartezjańskim układzie współrzędnych (x, y) na rysunku poniżej.

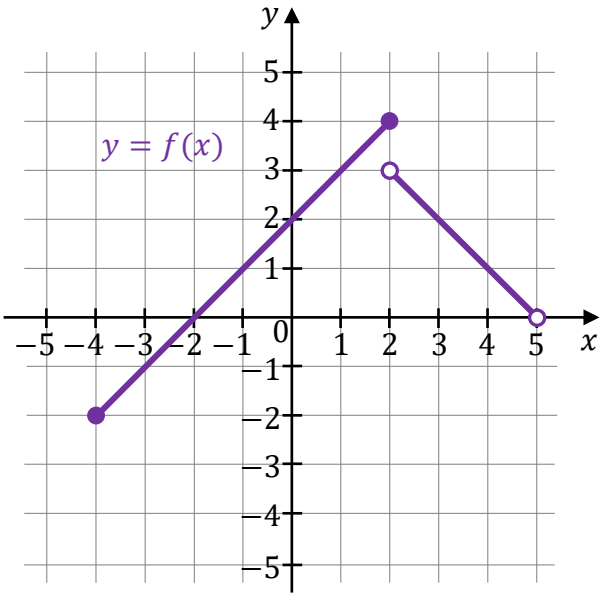

2.1.
-1–2

Zadanie 12.1. (0–2)

Uzupełnij zdania. Wpisz odpowiednie liczby w wykropkowanych miejscach, aby zdania były prawdziwe.

1. Rozwiązaniem równania $f(x) = 3$ jest liczba …… .

2. Największa wartość funkcji f w przedziale $[2, 3]$ jest równa …… .

Brudnopis

Więcej materiałów na lern.one

Zadanie 12.2. (0–2)

12.2.
0–1–2

Uzupełnij zdania. Wpisz odpowiednie przedziały w wykropkowanych miejscach, aby zdania były prawdziwe.

1. Zbiorem wartości funkcji f jest przedział …… .

2. Zbiorem wszystkich argumentów, dla których funkcja f przyjmuje wartości większe od 1, jest przedział …… .

Brudnopis

Więcej materiałów na lern.one

Zadanie 13.

Funkcja liniowa f jest określona wzorem $f(x) = ax + b$, gdzie a i b są pewnymi liczbami rzeczywistymi. W kartezjańskim układzie współrzędnych (x, y) przedstawiono fragment wykresu funkcji f. Każdy z punktów przecięcia wykresu funkcji f z osiami układu współrzędnych ma obie współrzędne całkowite. Wykres funkcji f jest nachylony do osi Ox układu współrzędnych pod kątem o mierze α (zobacz rysunek).

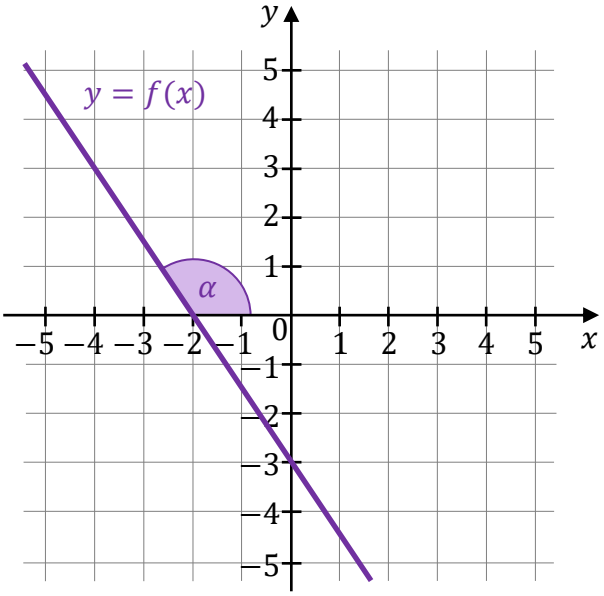

Zadanie 13.1. (0–1)

Oceń prawdziwość poniższych stwierdzeń. Wybierz P, jeśli stwierdzenie jest prawdziwe, albo F – jeśli jest fałszywe.

Współczynnik a we wzorze funkcji f jest liczbą dodatnią.	**P**	**F**
Współczynnik b we wzorze funkcji f jest liczbą dodatnią.	**P**	**F**

Brudnopis

Więcej materiałów na lern.one

Zadanie 13.2. (0–1)

Dokończ zdanie. Wybierz właściwą odpowiedź spośród podanych.

Tangens kąta o mierze α jest równy

A. $\left(-\frac{3}{2}\right)$ **B.** $\left(-\frac{2}{3}\right)$ **C.** $\frac{2}{3}$ **D.** $\frac{3}{2}$

Brudnopis

Więcej materiałów na lern.one

Zadanie 14. (0–4)

W kartezjańskim układzie współrzędnych (x, y) wykresem funkcji kwadratowej f jest parabola o wierzchołku w punkcie $W = (3, -2)$.
Funkcja kwadratowa g jest określona za pomocą funkcji f wzorem $g(x) = f(x + 1)$.
Jednym z miejsc zerowych funkcji g jest liczba 0.

14.
–1–
-3–4

Wyznacz wzór funkcji f w postaci ogólnej. Zapisz obliczenia.

Więcej materiałów na lern.one

Więcej materiałów na lern.one

Zadanie 15. (0–3)

Ciąg (a_n) jest określony wzorem $a_n = 3n + 5$ dla każdej liczby naturalnej $n \geq 1$.
Trzywyrazowy ciąg (a_1, a_9, a_k) jest geometryczny.

15.
–1–
2–3

Oblicz k. Zapisz obliczenia.

Więcej materiałów na lern.one

Zadanie 16. (0–1)

Ciąg arytmetyczny (a_n) jest określony dla każdej liczby naturalnej $n \geq 1$.
W tym ciągu $a_1 = 1$ oraz $a_5 = 17$.

Dokończ zdanie. Wybierz właściwą odpowiedź spośród podanych.

Dziewiąty wyraz ciągu (a_n) jest równy

A. 29 **B.** 33 **C.** 34 **D.** 37

Brudnopis

Zadanie 17. (0–1)

Ciąg geometryczny (a_n) jest określony dla każdej liczby naturalnej $n \geq 1$.
Wyrazy trzeci i szósty tego ciągu spełniają warunek $a_3 \cdot a_6 = 18$.

Uzupełnij zdanie. Wpisz odpowiednią liczbę w wykropkowanym miejscu, aby zdanie było prawdziwe.

17.
0–1

Iloczyn $a_2 \cdot a_7$ jest równy …… .

Brudnopis

Więcej materiałów na lern.one

Zadanie 18. (0–1)

Dany jest trójkąt prostokątny ABC, w którym bok AC jest przeciwprostokątną oraz $|BC| = 2$ i $|AC| = 2\sqrt{10}$. Oznaczmy kąt BCA przez γ (zobacz rysunek).

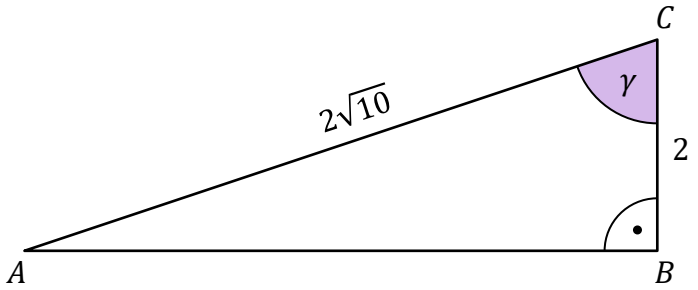

Dokończ zdanie. Wybierz właściwą odpowiedź spośród podanych.

Sinus kąta γ jest równy

A. $\frac{1}{\sqrt{10}}$ **B.** $\frac{1}{3}$ **C.** $\frac{3}{\sqrt{10}}$ **D.** $\frac{\sqrt{10}}{\sqrt{11}}$

Brudnopis

Więcej materiałów na lern.one

Zadanie 19. (0–1)

Punkty A, B, C oraz D leżą na okręgu o środku w punkcie O.
Punkt B leży na krótszym łuku AC.
Kąt CDA ma miarę $50°$, a kąt COB ma miarę $30°$ (zobacz rysunek).

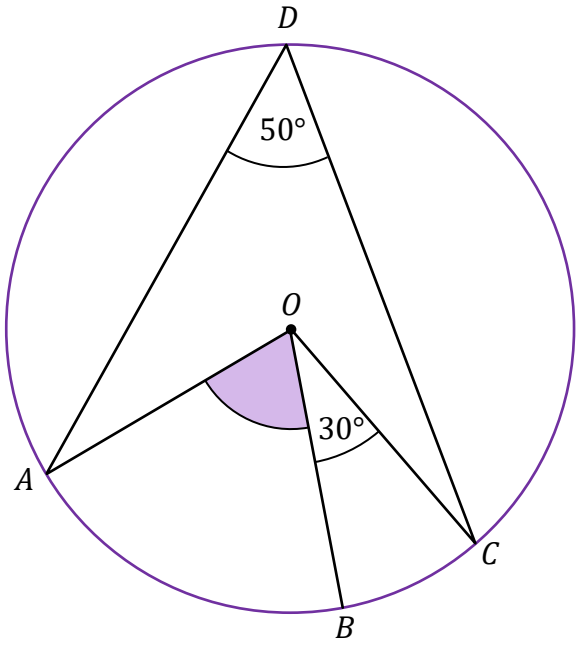

Dokończ zdanie. Wybierz właściwą odpowiedź spośród podanych.

Miara kąta ostrego BOA jest równa

A. $50°$ **B.** $60°$ **C.** $70°$ **D.** $100°$

Brudnopis

Więcej materiałów na lern.one

Zadanie 20. (0–1)

Na płaszczyźnie dane są cztery proste: k, l, m oraz n. Proste k oraz l są równoległe.
Prosta m przecina proste k oraz l w punktach – odpowiednio – A oraz C.
Prosta n przecina proste k oraz l w punktach – odpowiednio – D oraz B.
Odcinki AC i BD przecinają się w punkcie O.
Ponadto $|OA| = 12$, $|OB| = 6$ oraz $|OC| = 8$ (zobacz rysunek).

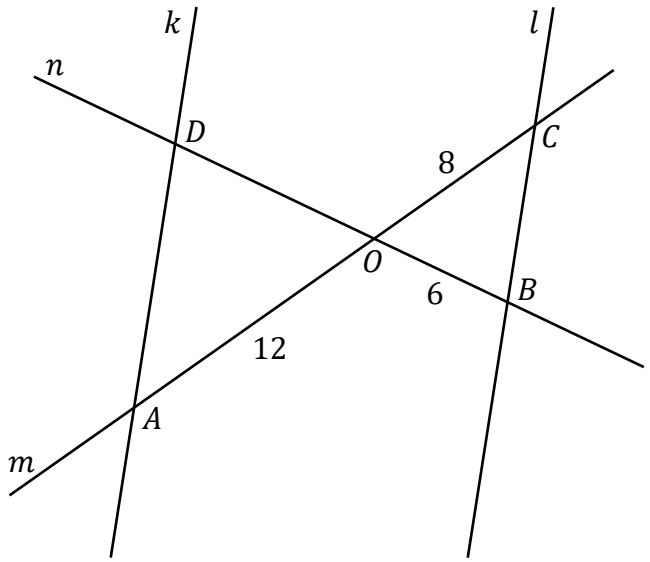

Dokończ zdanie. Wybierz właściwą odpowiedź spośród podanych.

Odcinek OD ma długość

A. 4 **B.** 9 **C.** 10 **D.** 16

Brudnopis

Więcej materiałów na lern.one

Zadanie 21. (0–2)

Dany jest trójkąt KLM, w którym $|KM| = a$ oraz $|LM| = b$.
Dwusieczna kąta LMK przecina bok KL w punkcie N (zobacz rysunek).

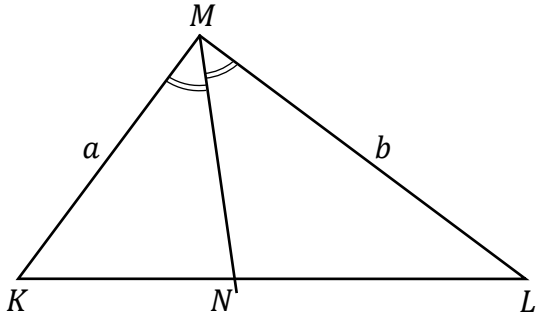

Wykaż, że stosunek pola trójkąta KNM do pola trójkąta NLM jest równy $\frac{a}{b}$.

21.
0–1–2

Więcej materiałów na lern.one

Zadanie 22. (0–1)

W okrąg $\mathcal{O}$ o promieniu $9\sqrt{3}$ wpisano trójkąt równoboczny $\mathcal{T}$.

22.
0–1

Uzupełnij zdanie. Wpisz odpowiednią liczbę w wykropkowanym miejscu, aby zdanie było prawdziwe.

Bok trójkąta $\mathcal{T}$ ma długość …… .

Brudnopis

Zadanie 23. (0–1)

Kąt α jest ostry i spełnia warunek $\frac{3\sin\alpha + 4\cos\alpha}{4\cos\alpha} = 6$.

Dokończ zdanie. Wybierz właściwą odpowiedź spośród podanych.

Tangens kąta α jest równy

A. $\frac{5}{8}$ **B.** $\frac{8}{3}$ **C.** $\frac{32}{5}$ **D.** $\frac{20}{3}$

Brudnopis

Więcej materiałów na lern.one

Zadanie 24.

W kartezjańskim układzie współrzędnych (x, y) punkty $A = (0, -3)$, $B = (2, 1)$ oraz $C = (0, 2)$ są wierzchołkami trójkąta prostokątnego.

Zadanie 24.1. (0–1)

Dokończ zdanie. Wybierz właściwą odpowiedź spośród podanych.

Pole trójkąta ABC jest równe

A. 3 **B.** 5 **C.** 6 **D.** 10

Brudnopis

Zadanie 24.2. (0–1)

Dokończ zdanie. Wybierz właściwą odpowiedź spośród podanych.

Środek okręgu opisanego na trójkącie ABC ma współrzędne

A. $\left(\frac{2}{3}, 0\right)$ **B.** $\left(-\frac{1}{2}, 0\right)$ **C.** $\left(0, -\frac{2}{3}\right)$ **D.** $\left(0, -\frac{1}{2}\right)$

Brudnopis

Więcej materiałów na lern.one

Zadanie 25. (0–1)

W kartezjańskim układzie współrzędnych (x, y) dany jest okrąg $\mathcal{O}$ o środku w punkcie $S = (1, -3)$ i o promieniu 5.

Oceń prawdziwość poniższych stwierdzeń. Wybierz P, jeśli stwierdzenie jest prawdziwe, albo F – jeśli jest fałszywe.

Punkt $A = (4, -7)$ leży na okręgu $\mathcal{O}$.	**P**	**F**
Okrąg $\mathcal{O}$ jest określony równaniem $(x-1)^2 + (y+3)^2 = 5$.	**P**	**F**

Brudnopis

Zadanie 26. (0–1)

W kartezjańskim układzie współrzędnych (x, y) dana jest prosta k o równaniu $y = -\frac{1}{3}x + 2$. Prosta l jest równoległa do prostej k i przechodzi przez punkt $(2, -2)$.

Dokończ zdanie. Wybierz właściwą odpowiedź spośród podanych.

Prosta l przecina oś Oy w punkcie

A. $(0, -3)$ **B.** $\left(0, -\frac{1}{2}\right)$ **C.** $(0, -1)$ **D.** $\left(0, -\frac{4}{3}\right)$

Brudnopis

Więcej materiałów na lern.one

Zadanie 27. (0–2)

Dany jest ostrosłup prawidłowy czworokątny, w którym przekątna podstawy ma długość $8\sqrt{3}$. Krawędź boczna tego ostrosłupa jest nachylona do płaszczyzny podstawy pod kątem $30°$.

Oblicz objętość tego ostrosłupa. Zapisz obliczenia.

27.
0–1–2

Więcej materiałów na lern.one

Zadanie 28. (0–1)

Stożek i walec mają równe wysokości. Promień podstawy stożka jest dwa razy większy od promienia podstawy walca.

Dokończ zdanie. Wybierz właściwą odpowiedź spośród podanych.

Stosunek objętości stożka do objętości walca jest równy

A. $\frac{1}{12}$ **B.** $\frac{1}{6}$ **C.** $\frac{2}{3}$ **D.** $\frac{4}{3}$

Brudnopis

Zadanie 29. (0–1)

Dokończ zdanie. Wybierz właściwą odpowiedź spośród podanych.

Wszystkich liczb naturalnych trzycyfrowych nieparzystych, w których zapisie dziesiętnym występują tylko cyfry $0,\ 1,\ 2,\ 3,\ 4,\ 5,\ 6$ (np.: $321,\ 555$), jest

A. $6 \cdot 7 \cdot 3$ **B.** $6 \cdot 7 \cdot 7$ **C.** $7 \cdot 7 \cdot 3$ **D.** $7 \cdot 7 \cdot 7$

Brudnopis

Więcej materiałów na lern.one

Zadanie 30. (0–2)

Dane są dwa zbiory cyfr: $X = \{1,\ 3,\ 5,\ 7,\ 9\}$ oraz $Y = \{0,\ 2,\ 4,\ 6,\ 8\}$.
Losujemy jedną cyfrę ze zbioru X, a następnie losujemy jedną cyfrę ze zbioru Y.
Następnie zapisujemy liczbę dwucyfrową w ten sposób, że cyfra wylosowana ze zbioru X jest cyfrą dziesiątek, a cyfra wylosowana ze zbioru Y jest cyfrą jedności tej liczby dwucyfrowej.

Oblicz prawdopodobieństwo zdarzenia A polegającego na tym, że otrzymana w ten sposób liczba dwucyfrowa będzie podzielna przez 6. Zapisz obliczenia.

30.
0–1–2

Więcej materiałów na lern.one

Zadanie 31. (0–1)

Nauczyciel matematyki po każdym sprawdzianie porównuje wyniki uzyskane przez uczniów dwóch klas: klasy IV A oraz klasy IV B. Na dwóch poniższych diagramach przedstawiono wyniki sprawdzianu ze statystyki, jakie uzyskali uczniowie tych klas.
Na osiach poziomych podano oceny, które uzyskali uczniowie tych klas, a na osiach pionowych podano liczbę uczniów, którzy otrzymali daną ocenę.

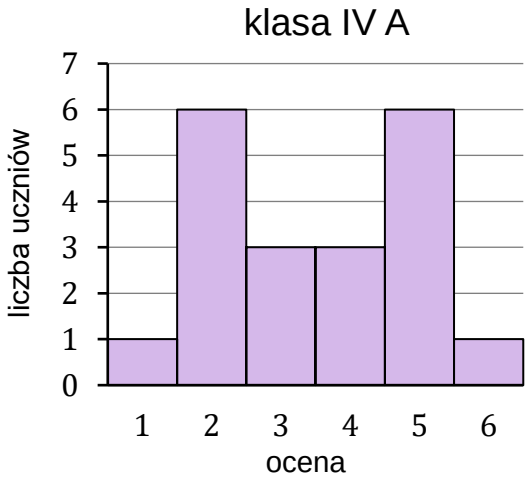

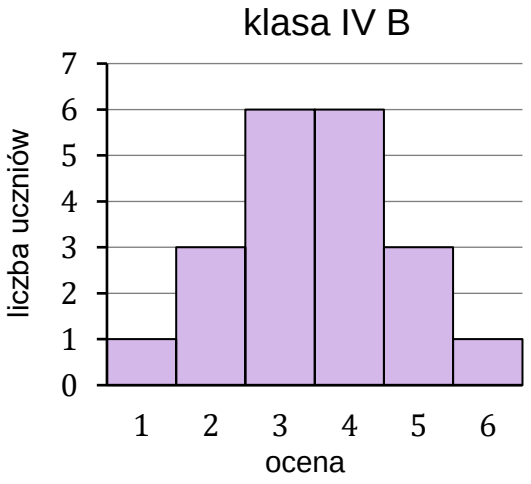

Oceń prawdziwość poniższych stwierdzeń. Wybierz P, jeśli stwierdzenie jest prawdziwe, albo F – jeśli jest fałszywe.

Średnia arytmetyczna ocen uzyskanych ze sprawdzianu ze statystyki przez uczniów klasy IV A jest równa średniej arytmetycznej ocen uzyskanych z tego sprawdzianu przez uczniów klasy IV B.	**P**	**F**
Mediana ocen uzyskanych ze sprawdzianu ze statystyki przez uczniów klasy IV A jest równa medianie ocen uzyskanych z tego sprawdzianu przez uczniów klasy IV B.	**P**	**F**

Brudnopis

Więcej materiałów na lern.one

Zadanie 32. (0–1)

Średnia arytmetyczna trzech liczb: a, b, c, jest równa 2.
Średnia arytmetyczna czterech liczb: d, e, f, g, jest równa $5{,}5$.

Dokończ zdanie. Wybierz właściwą odpowiedź spośród podanych.

Średnia arytmetyczna siedmiu liczb: a, b, c, d, e, f, g, jest równa

A. $3{,}5$ **B.** $3{,}75$ **C.** 4 **D.** $4{,}25$

Brudnopis

Więcej materiałów na lern.one

Zadanie 33.

W chwili $t = 0$ z poziomu ziemi wyrzucono piłeczkę pionowo do góry.
Przyjmijmy, że wysokość h, na której znajduje się piłeczka w danej chwili t, jest określona wzorem

$$h(t) = -4{,}9t^2 + 14{,}7t$$

gdzie:

- czas t jest wyrażony w sekundach (s) i zmienia się od 0 do chwili pierwszego uderzenia piłeczki o ziemię
- wysokość h jest wyrażona w metrach i jest liczona względem poziomu ziemi.

Zadanie 33.1. (0–1)

Dokończ zdanie. Wybierz właściwą odpowiedź spośród podanych.

Wyrzucona piłeczka po raz pierwszy uderzy w ziemię w chwili

A. $t = 1{,}5$ s **B.** $t = 2$ s **C.** $t = 2{,}5$ s **D.** $t = 3$ s

Brudnopis

Więcej materiałów na lern.one

Zadanie 33.2. (0–1)

Dokończ zdanie. Wybierz właściwą odpowiedź spośród podanych.

Wyrzucona piłeczka osiągnęła największą wysokość w chwili

A. $t = 1{,}5$ s **B.** $t = 2$ s **C.** $t = 2{,}5$ s **D.** $t = 3$ s

Brudnopis

Więcej materiałów na lern.one

BRUDNOPIS (nie podlega ocenie)

Więcej materiałów na lern.one

Więcej materiałów na lern.one

MATEMATYKA

Poziom podstawowy

Formuła 2023

MATEMATYKA

Poziom podstawowy

Formuła 2023

MATEMATYKA

Poziom podstawowy

Formuła 2023

Więcej materiałów na lern.one